1. Sınıf

ÇALIŞMA KAĞIDI

Tarih: .....
Adım: .....
Soyadım: .....

TÜRKÇE

Anlam İlişkileri

Birbiriyle anlam bakımından ilişkili olan sözcükleri aynı renge boyayalım.



Görseli dikkatli inceleyelim. Cümleleri okuyarak kutulara kimin adı nedir bulup, yazalım.



Merhaba ben Selen ve bu da benim büyük ailem. Size bazılarını tanıtmak isterim. Başlayalım mı?

Dedemin adı Halil. Beni çok sever. Teyzem Gözde. Yakında bir bebeği olacak. Teyzemin sağında duran ise onun eşi, Mehmet ağabeyim. Arda benim erkek kardeşim. Ablam Selin ile benim aramızda duruyor. Dayımın adı Tahir. Güneş gözlüğünü yakasına takmış. Annemin adı Esin. Çiçekli bir tişört ile etek giymiş. Halam ise Fulya. Şort ve tişört giymiş. Halamın kızı Özlem. O ailemizin en küçüğüdür. Babamın ismi Kenan. Süveter ve kazak giyinmiş. Şapka takan benim kuzenim Selim. Ninemin adı ise Emine.

1. Sınıf

ÇALIŞMA KAĞIDI

Tarih: .....

Adım: .....

Soyadım: .....

TÜRKÇE

Cümle Kurma

Aşağıdaki görsellerin yanına ilgili cümle yazalım.



1. Sınıf

ÇALIŞMA KAĞIDI

Tarih: .....

Adım: .....

Soyadım: .....

TÜRKÇE

Okuma - Anlama

TAVŞAN ile KAPLUMBAĞA

Tavşan; "Beni hiç kimse geçemez!" diye övünürmüş. Kaplumbağa ise tavşanın kendini beğenmesine çok kızarmış. Yine bir gün tavşan; "Benimle hiç kimse yarışamaz!" demiş, "Ben herkesi geçerim."

Kaplumbağa ortaya çıkarak; "Var mısın benimle yarışmaya?" demiş.

Tavşan buna çok gülmüş. "Nasılsa kaplumbağayı geçerim," diye düşünerek teklifi kabul etmiş.

Tavşan ile kaplumbağa yarışmaya karar vermişler. Bunu duyan herkes de çok gülmüş. Hiç kaplumbağa, tavşanı geçer mi?

Yarışma günü gelmiş. Bütün hayvanlar yarış yerinde imiş. Başlama işareti ile birlikte tavşan hızla koşmaya başlamış. Bir havuç tarlası görünce, birkaç havuç yiyip uykuya dalmış. Uykudan uyanınca, bir de ne görsün. Kaplumbağa yarışı bitirmek üzere imiş.

Yerinden fırlayıp, başlamış koşmaya. Ama boşuna. Kaplumbağa, yarışı birincilikle bitirmiş.

Tavşan da övünmesinin cezasını böylece çekmiş.

Doğru olan ifadelere (D) yanlış olan ifadelere (Y) yazalım.

( ) Kaplumbağa, beni hiç kimse geçemez diye övünürmüş.

( ) Tavşan ortaya çıkarak; "Var mısın benimle yarışmaya?" demiş.

( ) Başlama işareti ile birlikte tavşan hızla koşmaya başlamış.

( ) Tavşan uykudan uyanınca, kaplumbağanın yarışı bitirmek üzere olduğunu görmüş.

1. Sınıf

ÇALIŞMA KAĞIDI

Tarih: .....
Adım: .....
Soyadım: .....

TÜRKÇE

Hikâye Unsurları

Öyküye göre hikaye haritasını oluşturalım.

Doğru cevabı bulalım.

1. Tavşanla kaplumbağanın yarışacağını duyan hayvanlar ne yapmış?

   A) Heyecanlanmış B) Gülmüş C) Üzülmüş

2. Tavşan, yarışma başladıktan sonra ne tarlası görüyor?

   A) Domates B) Salatalık C) Havuç

3. Tavşan, yarışmanın sonucunda hangi alışkanlığının cezasını çekmiş?

   A) Övünmesinin B) Çok hızlı olmasının C) Aç gözlü olmasının

4. Tavşan ile kaplumbağanın yarışmasını hangisi istemiştir?

   A) Tavşan B) Kaplumbağa C) Aslan

1. Sınıf

ÇALIŞMA KAĞIDI

Tarih: .....
Adım: .....
Soyadım: .....

MATEMATİK ..... Toplama İşlemi

Aşağıda verilen toplama işlemlerini yapıp sonuçlarını yazalım.

10 + 1 = ...	8 + 4 = ...	12 + 7 = ...	7 + 7 = ...
14 + 5 = ...	9 + 8 = ...	10 + 10 = ...	10 + 3 = ...
13 + 6 = ...	7 + 6 = ...	11 + 8 = ...	7 + 9 = ...
6 + 5 = ...	8 + 8 = ...	10 + 6 = ...	13 + 4 = ...
5 + 9 = ...	10 + 7 = ...	6 + 6 = ...	8 + 5 = ...

1. Sınıf

ÇALIŞMA KAĞIDI

Tarih: .....

Adım: .....

Soyadım: .....

MATEMATİK ..... Toplama İşlemi

Aşağıda verilen toplama işlemlerini yapıp sonuçlarını yazalım.

19 + 1 = ...	13 + 4 = ...	16 + 3 = ...	14 + 4 = ...	10 + 10 = ...
16 + 4 = ...	11 + 8 = ...	12 + 4 = ...	13 + 5 = ...	14 + 5 = ...
15 + 5 = ...	12 + 7 = ...	10 + 1 = ...	10 + 2 = ...	10 + 3 = ...
10 + 4 = ...	10 + 5 = ...	10 + 6 = ...	11 + 3 = ...	11 + 4 = ...
11 + 5 = ...	11 + 6 = ...	11 + 0 = ...	11 + 9 = ...	10 + 0 = ...

1. Sınıf

ÇALIŞMA KAĞIDI

Tarih: .....

Adım: .....

Soyadım: .....

MATEMATİK ..... Toplama İşlemi

Aşağıda verilen toplama işlemlerini yapıp sonuçlarını yazalım.

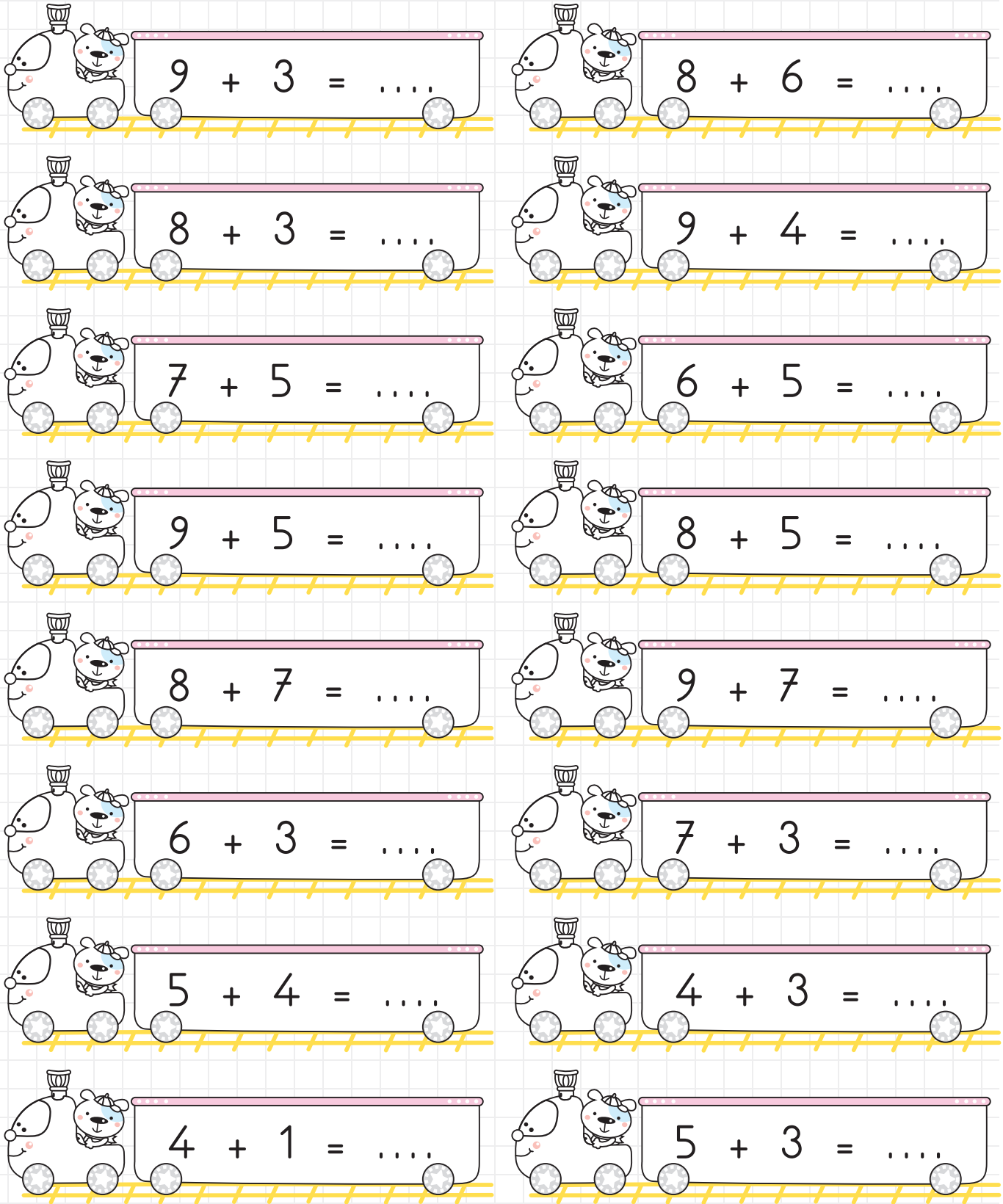

1. Sınıf

ÇALIŞMA KAĞIDI

Tarih: .....
Adım: .....
Soyadım: .....

MATEMATİK ..... Çıkarma İşlemi

Çıkarma işlemlerinin sonuçlarını bulalım. Sonuçları aynı olan işlemlerin yanındaki elmaları yeşile boyayalım.



1. Sınıf

ÇALIŞMA KAĞIDI

Tarih: .....
Adım: .....
Soyadım: .....

MATEMATİK ..... Çıkarma İşlemi

Çıkarma işlemlerinin sonuçlarını bulalım. Sonuçları aynı olan işlemlerin yanındaki elmaları yeşile boyayalım.

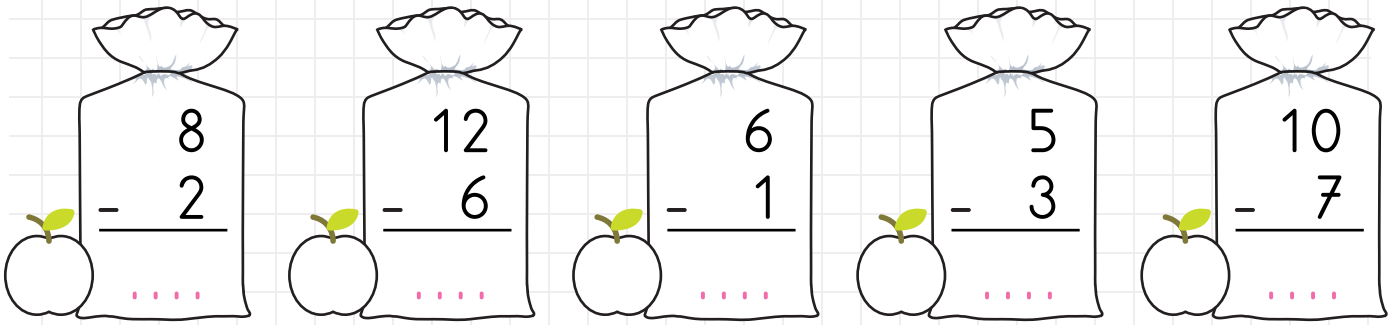

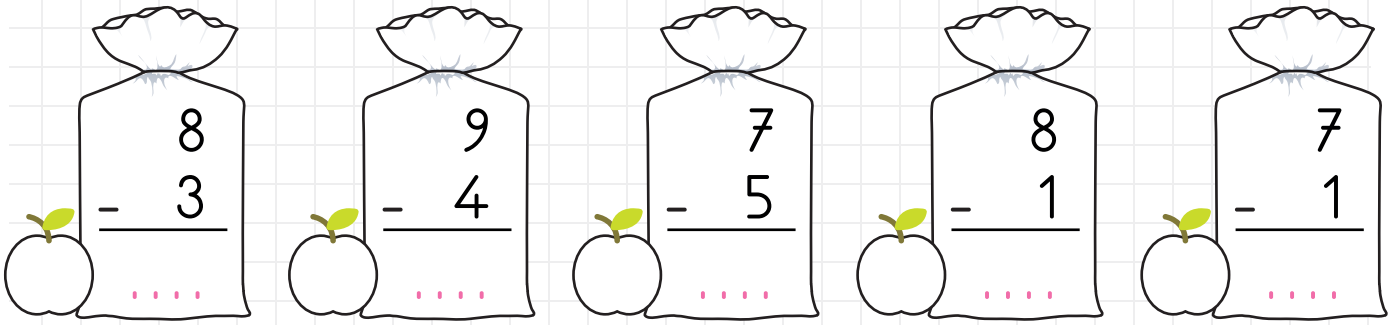

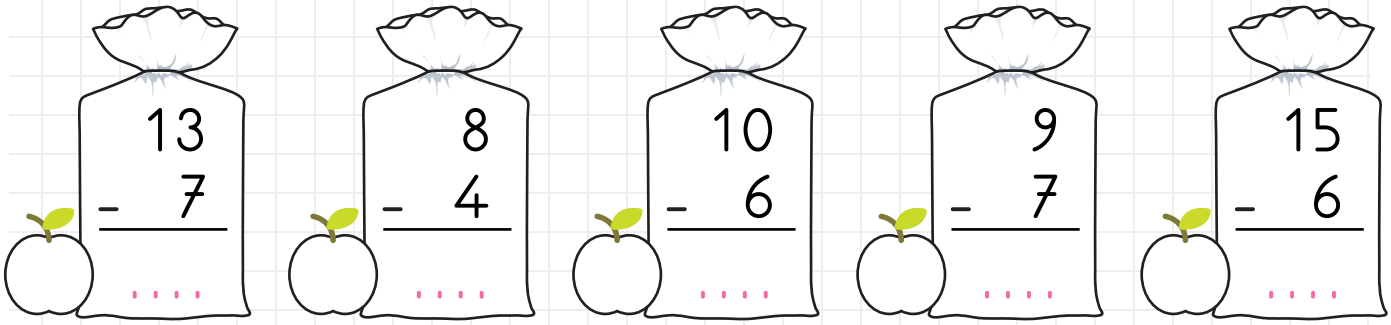

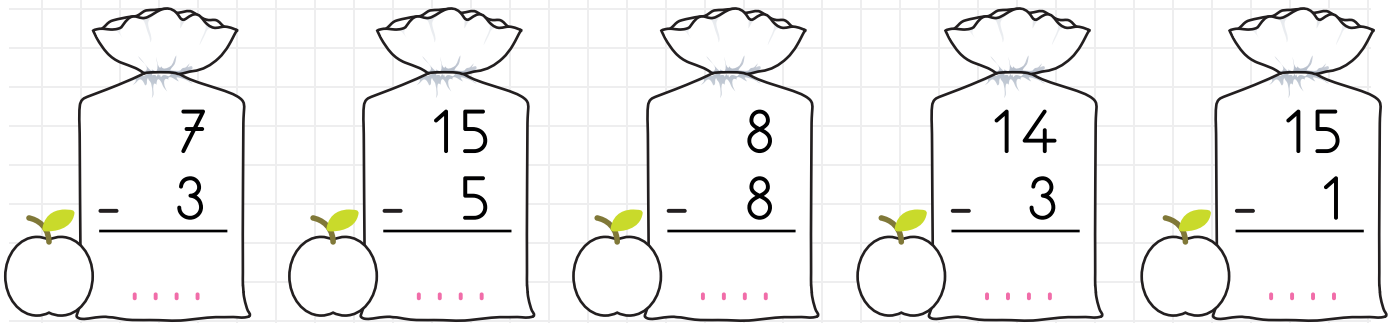

1. Sınıf

ÇALIŞMA KAĞIDI

Tarih: .....
Adım: .....
Soyadım: .....

MATEMATİK ..... Çıkarma İşlemi

Aşağıdaki çıkarma işlemlerinin sonuçlarını örnekteki gibi bulup, sayıları noktalı yerlere yazalım.

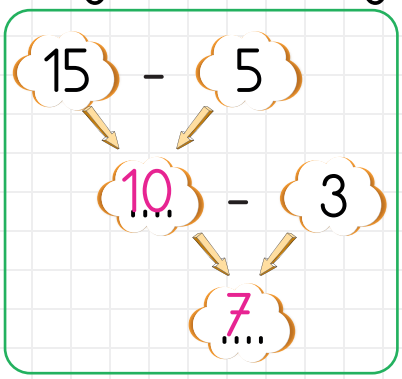

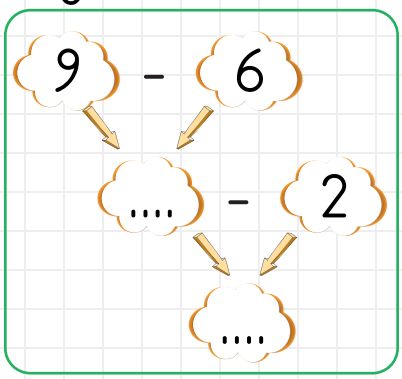

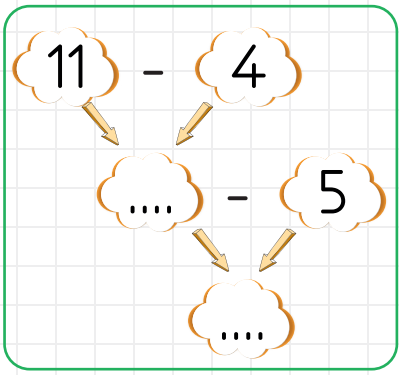

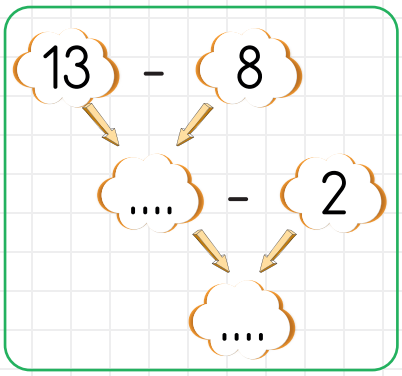

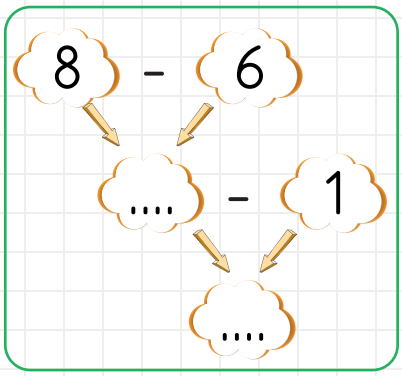

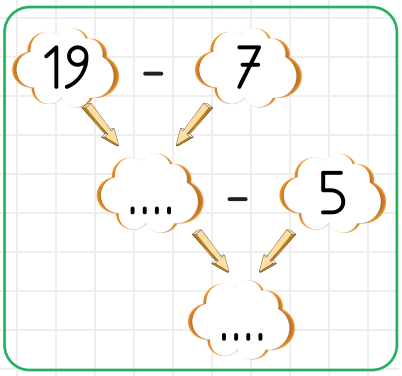

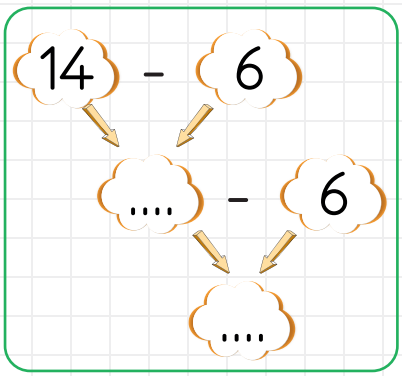

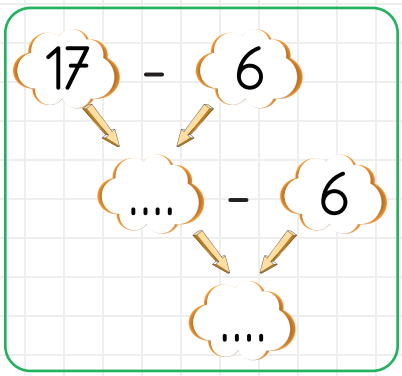

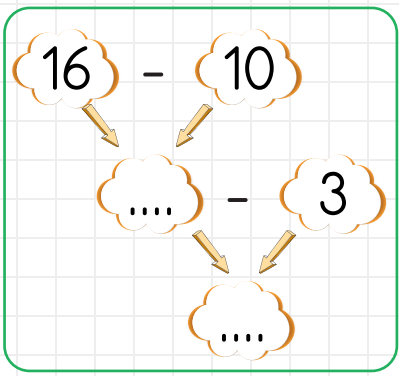

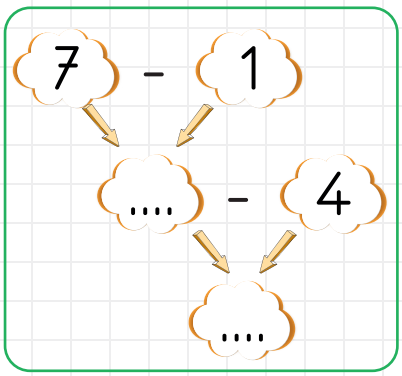

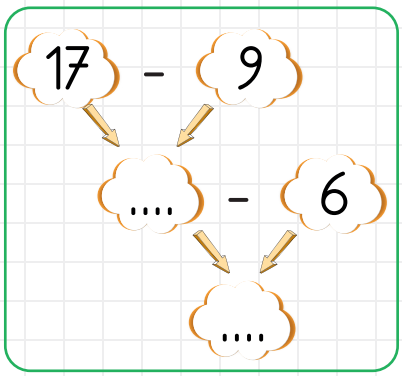

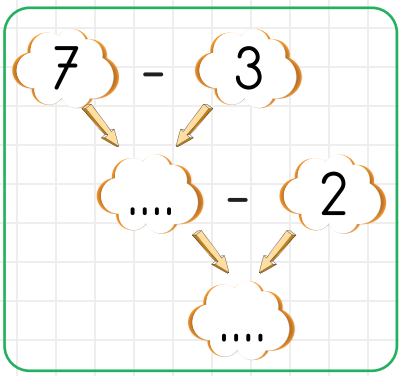

1. Sınıf

ÇALIŞMA KAĞIDI

Tarih: .....
Adım: .....
Soyadım: .....

MATEMATİK ..... Geriye Sayma

20'den geriye doğru sayalım ve boşlukları uygun bir şekilde dolduralım.

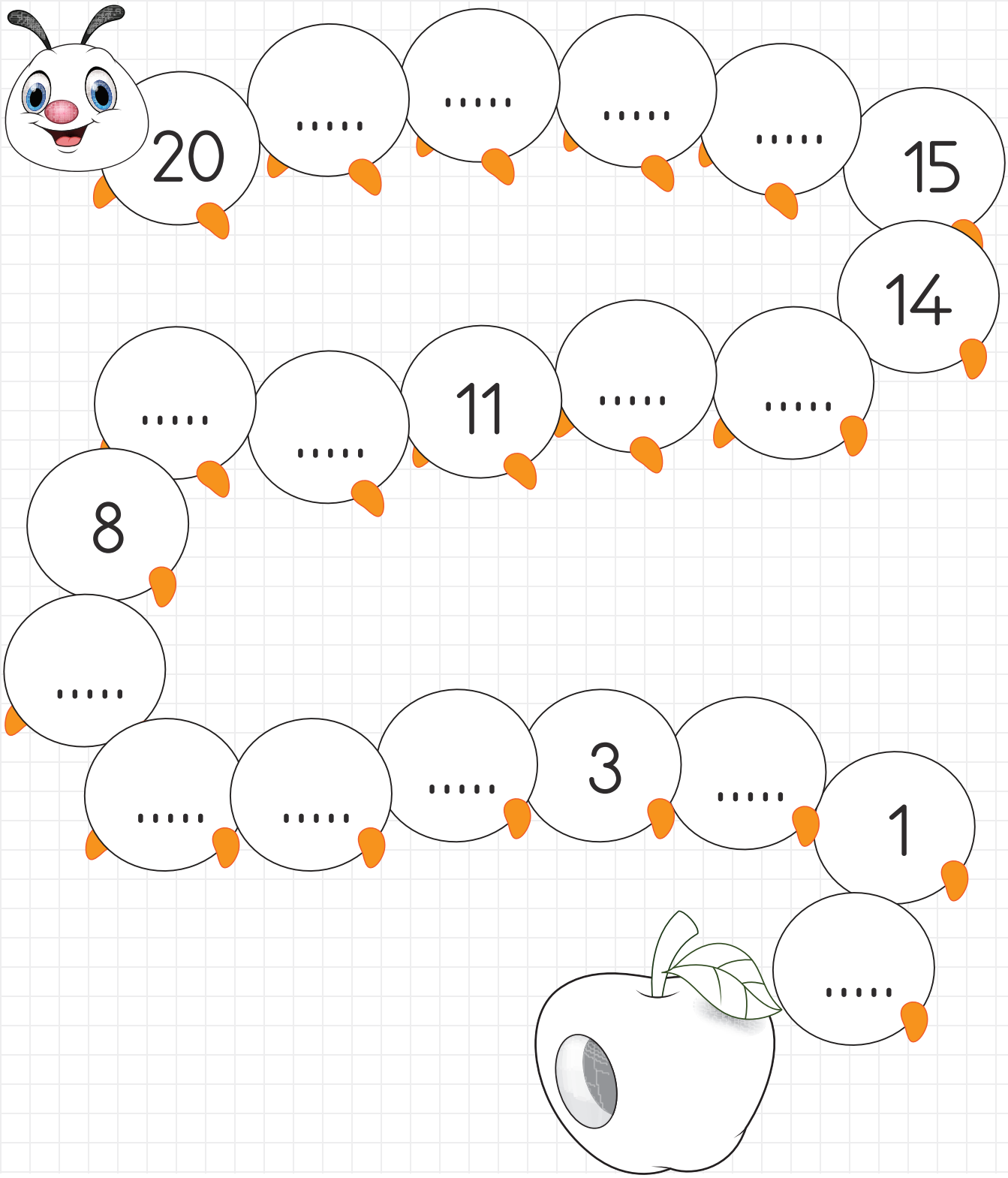

1. Sınıf

ÇALIŞMA KAĞIDI

Tarih: .....
Adım: .....
Soyadım: .....

MATEMATİK ..... Ritmik Sayma

Aşağıdaki ritmik saymaları uygun bir şekilde devam ettirelim.



Aşağıda verilen sayıların arasındaki boşluğa uygun sayıyı yazalım.

11 13	14 16	17 19
3 5	6 8	7 9
4 6	13 15	18 20

2018-2019

1. SINIF

2. DÖNEM SETİ

Yeni Müfredata Uygun

40 sf. | 128 sf. | 160 sf. | 144 sf.

- OKUMA-ANLAMA ÇALIŞMALARI
- TÜRKÇE DİL BİLGİSİ
- 100'lerce TEST SORUSU
- 100'lerce ETKİNLİK

OKUMAYA GEÇEN ÖĞRENCİLERE

80 sf.

Hikaye ve Etkinliği

Bilgi ve Sipariş İçin Bize Ulaşın
0(543) 724 96 90

öğretmen evde .com.tr

www.ogretmenevde.com.tr